Централизованное тестирование по географии, 2014

При выполнении заданий с кратким ответом впишите в поле для ответа цифру, которая соответствует номеру правильного ответа, или число, слово, последовательность букв (слов) или цифр. Ответ следует записывать без пробелов и каких-либо дополнительных символов.

В заданиях, где нужно установить соответствие между двумя столбцами, ответ запишите в виде сочетания букв и цифр, соблюдая алфавитную последовательность букв левого столбца. Некоторые данные правого столбца могут использоваться несколько раз или не использоваться вообще. Например: А1Б1В4Г2.

Если вариант задан учителем, вы можете вписать или загрузить в систему ответы к заданиям с развернутым ответом. Учитель увидит результаты выполнения заданий с кратким ответом и сможет оценить загруженные ответы к заданиям с развернутым ответом. Выставленные учителем баллы отобразятся в вашей статистике.

1. Уроженец Беларуси, занимавшийся изучением озера Байкал и гор Прибайкалья:

1) Н. М. Пржевальский 2) И. Д. Черский 3) И. И. Домейко
4) Д. Ливингстон

2. Географический объект, отмеченный на плане местности точкой, — это:

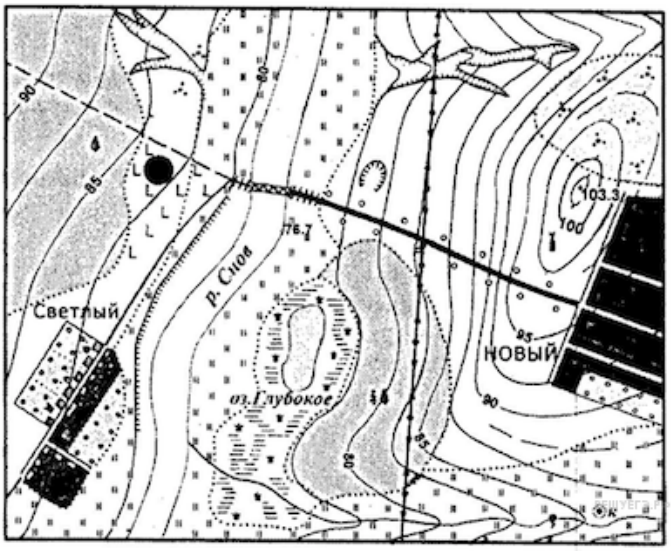

1) луг 2) вырубка 3) фруктовый сад
4) сплошные заросли кустарников

3. Плоскогорье — это:

1) равнинный участок суши с абсолютной высотой до 200 м
2) равнинный участок суши с абсолютными высотами от 200 до 500 м
3) равнинный участок суши с абсолютной высотой свыше 500 м
4) замкнутое со всех (или почти всех) сторон понижение суши, расположенное ниже уровня океана

4. Определите ОШИБОЧНОЕ утверждение:

1) пассаты в Южном полушарии дуют с юго-востока на северо-запад
2) зимой в субтропическом климатическом поясе климат формируется под воздействием тропических воздушных масс
3) на западном побережье Евразии в умеренном климатическом поясе формируется морской тип климата
4) на юго-западной окраине Африки формируется субтропический средиземноморский тип климата

5. Северо-восточное побережье Северной Америки омывает холодное течение:

1) Лабрадорское 2) Гольфстрим 3) Западных Ветров
4) Бенгельское

6. Отметьте, какой природный комплекс (из предложенных) может дополнить схему экваториального климатического пояса Африки:

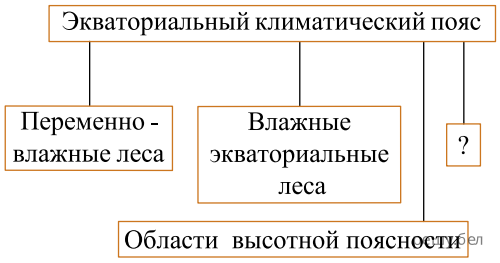

1) лесостепи и степи 2) полупустыни и пустыни
3) саванны и редколесья
4) жестколистные вечнозеленые леса и кустарники

7. Для полового и возрастного состава населения мира характерно(-а):

1) преобладание мужчин в старших возрастных группах
2) более высокая продолжительность жизни в экономически развитых странах
3) высокая доля пожилых людей в возрастной структуре населения развивающихся стран
4) омоложение населения в экономически развитых странах

8. Федеративными по форме административно-территориального устройства являются:

1) Аргентина, Польша 2) Мексика, Португалия 3) Нигерия, Латвия
4) Нигерия, Бразилия

9.

Государство, которое по форме правления является монархией, отмечено на карте точкой с цифрой:

1) 1 2) 2 3) 3 4) 4

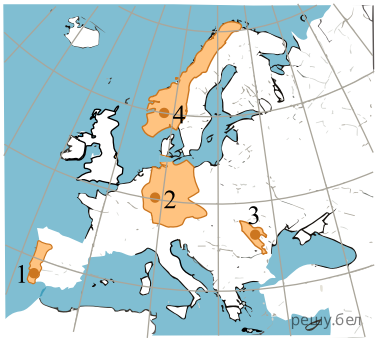

Карта составлена по состоянию на 01.01.2014

10. Для мировой промышленности характерно(-а):

1) поступление на внешний рынок большей части добытого угля
2) наличие в Ямайке запасов бокситов, имеющих мировое значение
3) вхождение только высокоразвитых государств в число крупнейших производителей автомобилей
4) наибольшая доля калийных удобрений в структуре производства минеральных удобрений

11. Среди перечисленных государств крупнейшими по размерам валового сбора риса являются:

1) Бразилия, Венесуэла 2) Грузия, Алжир 3) Индия, Индонезия
4) Япония, Франция

12. Географию мирового транспорта характеризует:

1) использование железнодорожного транспорта для грузоперевозок преимущественно на короткие расстояния

2) наименьшая протяженность автомобильных дорог в транспортной сети мира
3) наибольшая протяженность внутренних водных путей в Канаде
4) обеспечение морским транспортом основных внешних торговых перевозок в странах Северной Европы

13. Для территории Африки характерно(-а):

1) расположение высоких горных цепей на юге материка
2) теплая и влажная зима на побережье Средиземного моря
3) принадлежность реки Замбези к бассейну Атлантического океана
4) широкое распространение красных и красно-бурых почв в природной зоне тропических полупустынь и пустынь

14. Укажите ОШИБОЧНОЕ утверждение в характеристике социально-экономического развития ЮАР:

1) в расовой структуре населения преобладают представители европеоидной расы
2) цветная металлургия представлена производством меди
3) в животноводстве ведущую роль играет овцеводство
4) в число экспортной продукции входят сахар и цитрусовые

15. Укажите ОШИБОЧНОЕ утверждение в характеристике природы Австралии:

1) на материке отсутствуют безводные озерные котловины
2) материк богат подземными водами
3) в природной зоне саванн и редколесий среди высоких трав произрастают эвкалипты
4) на юго-западе материка распространены жестколистные вечнозеленые леса и кустарники

16. Для социально-экономического развития Австралийского Союза характерна(-о):

1) низкая плотность населения в восточной части страны
2) расположение крупных предприятий тяжелой промышленности на севере страны
3) мировое лидерство по поголовью овец
4) наличие трансконтинентальной магистрали

17. Укажите ОШИБОЧНОЕ утверждение в характеристике Антарктиды:

1) окраинные моря неглубоко врезаются в материк
2) в основании большей части материка лежит древняя платформа
3) средние зимние температуры колеблются в пределах от −32 до −16 °С
4) в прибрежных водах обитают ластоногие

18. В пределах материка Южная Америка расположены:

1) водопад Анхель, река Огайо
2) озеро Маракайбо, Оринокская низменность
3) река Укаяли, озеро Гурон
4) горы Анды, река Маккензи

19. Для социально-экономического развития стран Южной Америки характерна(-о):

1) унитарная форма политико-территориального устройства в Аргентине
2) отсутствие крупных ГЭС
3) производство автомобилей в Бразилии
4) выращивание льна как одной из основных плантационных культур

20. Для социально-экономического развития Венесуэлы характерен(-но, -на):

1) низкий естественный прирост населения
2) производство большей части электроэнергии на АЭС
3) специализация цветной металлургии на производстве алюминия
4) ведущая роль сельского хозяйства в экономике страны

21. Для природы Северной Америки характерен(-но):

1) выход кристаллического фундамента на поверхность в юго-западной части платформы
2) отсутствие действующих вулканов на Мексиканском нагорье
3) выпадение максимального количества осадков в умеренном климатическом поясе на западном побережье

4) наличие наибольшего по площади озера материка — Мичиган

22. ОШИБОЧНЫМ в характеристике социально-экономического развития США является утверждение:

1) имеет наибольшую численность населения среди стран материка
2) основная часть электроэнергии производится на АЭС
3) автомобилестроение находится на высоком уровне развития
4) в отраслевой структуре сельского хозяйства ведущую роль играет растениеводство

23. Установите соответствие «тектоническая структура — форма рельефа», закончив логический ряд: Сибирская платформа — ... :

1) Западно-Сибирская равнина 2) Среднесибирское плоскогорье
3) Валдайская возвышенность 4) плато Декан

24. На территории Европы расположены:

1) река По, Аральское море 2) горы Карпаты, река Тигр
3) озеро Балатон, река Меконг 4) река Рейн, Онежское озеро

25. Для социально-экономического развития Польши характерен(-на, -но):

1) наиболее высокий среди европейских стран уровень урбанизации
2) низкий уровень развития текстильной промышленности
3) ведущая роль производства зерновых культур в структуре растениеводства
4) отсутствие крупных портовых комплексов

26. Физико-географический регион Азии, в пределах которого расположены такие географические объекты, как остров Тайвань, река Хуанхэ, пустыня Гоби, обозначен на карте цифрой:

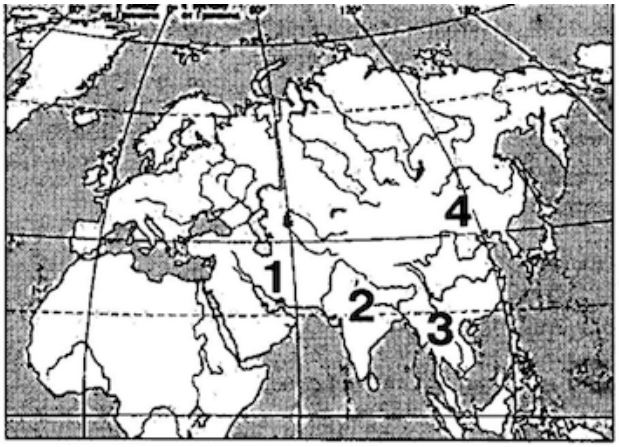

Карта составлена по состоянию на 01.01.2014

1) 1 2) 2 3) 3 4) 4

27. Для социально-экономического развития Китая, в ОТЛИЧИЕ от Индии, характерна(-о):

1) занятость подавляющей части населения в промышленности
2) производство хлопчатобумажных тканей
3) мировое лидерство в производстве химических волокон
4) наибольшее в мире поголовье крупного рогатого скота

28. Территорию России омывают моря:

1) Черное и Южно-Китайское 2) Северное и Берингово
3) Красное и Охотское 4) Белое и Японское

29. В характеристике социально-экономического развития России ОШИБОЧНЫМ является утверждение:

1) буряты, тувинцы, калмыки исповедуют буддизм
2) в зоне очагового заселения проживает половина населения страны
3) алюминиевая промышленность базируется в основном на собственных ресурсах

4) посевы ячменя и овса предназначены преимущественно для нужд животноводства

30. Относительно географического положения Беларуси ВЕРНЫМ является утверждение:

1) по площади территории уступает Греции
2) по протяженности государственная граница с Польшей превышает границу с Литвой
3) граница государства с Украиной проходит по реке Днепр
4) географический центр Беларуси расположен в Могилевской области

31. Автор первого учебника «География Беларуси» для белорусской школы:

1) И. И. Жилинский 2) В. А. Жучкевич 3) А. А. Смолич
4) А. Х. Шкляр

32. Месторождения сырья для производства извести, цемента, шифера в Беларуси:

1) Околовское, Новоселковское 2) Колядичи, Каменка
3) Старобинское, Петриковское 4) Гайдуковка, Фанипольское

33. Определите ОШИБОЧНОЕ утверждение в характеристике климата Беларуси:

1) зима на северо-востоке страны длиннее лета
2) суммарная солнечная радиация увеличивается с севера на юг
3) атлантический воздух отепляет преимущественно юго-западные районы страны
4) устойчивый снежный покров образуется ежегодно на всей территории

34. Для гидрографии Полесской физико-географической провинции характерна(-ен, -о):

1) самая низкая густота речной сети
2) преимущественно дождевой тип питания рек
3) отсутствие остаточных озер
4) небольшое количество озер-стариц в пойме реки Припяти

35. К молодым городам на территории Беларуси относится:

1) Светлогорск 2) Минск 3) Несвиж 4) Гродно

36. Для промышленности Беларуси характерно(-а):

1) наличие электростанций, использующих энергию ветра
2) производство большей части чугунного и стального литья из металлолома
3) отсутствие предприятий по производству дорожных машин
4) наибольшая доля азотных удобрений в структуре производства минеральных удобрений

37. Для сельского хозяйства Беларуси характерен(-но, -на):

1) низкий удельный вес пашни в структуре сельскохозяйственных угодий
2) преобладание зерновых и зернобобовых культур в структуре посевных площадей
3) наибольшая концентрация посевов льна-долгунца в южных районах страны
4) разведение овец преимущественно на территории Витебской области

38. Для транспорта Беларуси характерна(-ен):

1) ведущая роль автомобильного транспорта в осуществлении внешнеэкономических связей
2) наибольшая густота автомобильных дорог с твердым покрытием в Брестской области
3) наибольшая доля газопроводов в общей протяженности магистральных трубопроводов
4) наибольший грузооборот у Гомельского речного порта

39. Запишите название острова, выделенного на карте цветом и обозначенного буквой.

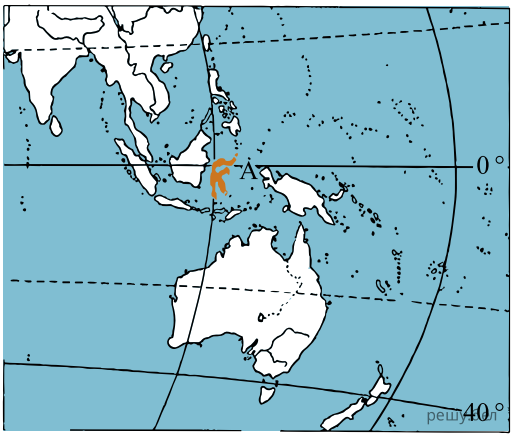

Карта составлена по состоянию на 01.01.2014

40. Расположите последовательно с севера на юг следующие географические объекты:

1) Большой Австралийский залив
2) озеро Виннипег
3) полуостров Малая Азия
4) Багамские острова

Ответ запишите в виде последовательности цифр. Например: 2143.

41. Установите соответствие.

МЕЖДУНАРОДНАЯ ОРГАНИЗАЦИЯ	ГОСУДАРСТВО
А) СНГ	1) Канада
Б) НАТО	2) Индонезия
В) АСЕАН	3) Швеция
Г) ЕС	4) Япония
	5) Таджикистан

Ответ запишите в виде сочетания букв и цифр, соблюдая алфавитную последовательность букв левого столбца. Не все данные правого столбца могут быть при этом использованы. Например: А2Б1В4Г5.

42. В июле в субантарктическом климатическом поясе господствуют ... воздушные массы.

43. Федеративное государство, расположенное на севере материка, для которого характерен высокий естественный прирост населения. Выделяется в регионе добычей нефти, масштабами выплавки первичного алюминия. Столица государства — ...

44. Установите соответствие.

ЭКОНОМИЧЕСКИЙ И ПОЛИТИЧЕСКИЙ ЦЕНТР	РЕГИОН
	1) Западная Европа
А) Афины	2) Австралия
Б) Монреаль	3) Северная Америка
В) Канберра	4) Юго-Западная Азия
Г) Батуми	5) Южная Европа

Ответ запишите в виде сочетания букв и цифр, соблюдая алфавитную последовательность букв левого столбца. Не все данные правого столбца могут быть при этом использованы. Например: А2Б1В4Г5.

45. Установите соответствие.

ХАРАКТЕРИСТИКА ГОСУДАРСТВА

А) один из мировых лидеров по поголовью крупного рогатого скота и производству кофе
Б) федеративное государство, один из крупнейших в мире экспортеров нефти и природного газа
В) ведущее государство мира по экспорту газетной бумаги
Г) федеративная республика с самой протяженной сетью автомобильных дорог

ГОСУДАРСТВО

1) Россия
2) Китай
3) США
4) Канада
5) Бразилия

Ответ запишите в виде сочетания букв и цифр, соблюдая алфавитную последовательность букв левого столбца. Не все данные правого столбца могут быть при этом использованы. Например: А2Б1В4Г5.

46. В южной части Беларуси на поверхность выходят отложения днепровского ... оледенения.
Ответ:

47. Установите соответствие между географическим объектом, отмеченным на карте Беларуси точкой с буквой, и его названием:

Карта составлена по состоянию на 01.01.2014

1) Вилейское водохранилище.
2) Любанское водохранилище.
3) река Ловать.
4) река Ясельда.
5) река Дисна.

Ответ запишите в виде сочетания букв и цифр, соблюдая алфавитную последовательность букв левого столбца. Не все данные правого столбца могут быть при этом использованы. Например: А2Б1В4Г5.

48.

На картосхеме обозначены промышленные центры Беларуси — Слуцк, Сморгонь, Речица, Полоцк. Метизный завод расположен в городе, отмеченном точкой с цифрой ...

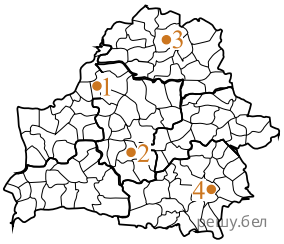

Карта составлена по состоянию на 01.01.2014

49. Определите расстояние (в километрах) между пунктами с координатами 14° с. ш., 70° в. д. и 3° ю. ш., 70° в. д.

Ответ запишите в виде целого числа. Например 218.

50. —На территории государства площадью 93 тыс. км^2 проживают 9,5 млн человек. Определите среднюю плотность населения страны.

Ответ запишите в виде целого числа. Например 21.